C. 城乡收入差距大　　D. 农村人口自然增长率低

2. "有城无人住，有地无人种"带来

A. 土地资源浪费　　B. 农业发展水平提高

C. 城乡协调发展　　D. 农村老龄化程度降低

近年来，北京市出现了一类大型城郊居住区，而大量就业岗位仍分布在城市中心地区，产生了"钟摆"交通现象。完成3～4题。

3. 图1为某工作日北京市部分路段路面交通实时路况示意图。图示时刻最有可能是

A. 8:00

B. 12:00

C. 14:00

D. 18:00

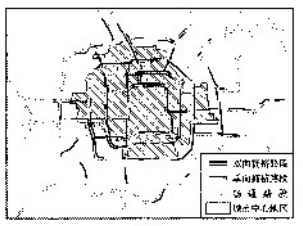

图1

4. 为缓解北京市的"钟摆"交通现象，可以

A. 迁出城市中心地区的部分人口

B. 发展城市中心地区的第三产业

C. 优化城市中心地区的企业投资环境

D. 迁出城市中心地区的部分企事业单位

— 17 —

绿洲与荒漠间交错带生态环境脆弱，在塔里木河的绿洲区过度开采地下水会使及荒带生态环境恶化，形成"生态裂谷"。图2为"生态裂谷"分布示意图。完成5～6题。

5. "生态裂谷"形成过程中，附近的变迁带

A. 自然植被改善

B. 风力侵蚀减弱

C. 地下水埋深减深

D. 流动沙丘转为固定沙丘

6. "生态裂谷"出现后，为了绿洲区的可持续发展，应该

A. 在荒漠区植树造林

B. 在交错带发展灌溉农业

C. 在绿洲区禁止开采地下水

D. 在流域内合理分配水资源

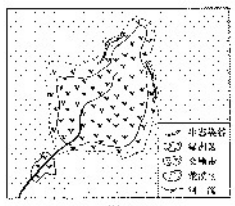

图2

日照时数指太阳在某地实际照射的时间。图3为图4所示流域日照时数年内变化柱状图。完成7～8题。

7. 该流域日照时数在7月出现低谷的影响因素是

A. 云量　　B. 海拔

C. 下垫面　　D. 正午太阳高度

6. 日照百分率为一个时段内某地日照时数与理论上最大的日照时数的比值(%)。该流域3月份的日照百分率约为

A. 53%　　B. 62%

C. 70%　　D. 78%

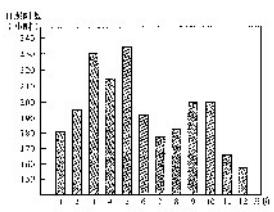

图3

图4为我国某山地北坡甲、乙、丙三地垂直自然带随海拔变化示意图。完成9～10题。

9. 该山地可能是

A. 秦岭

B. 南岭

C. 昆仑山

D. 喜马拉雅山

10. 甲、乙、丙三地垂直自然带的类型组合存在差异的主导因素是

A. 光照　　B. 水分

C. 坡度　　D. 热量

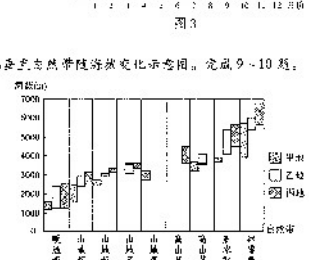

图4

— 18 —

某地质兴趣小组在一次野外考察中，绘制了一条与考察区域总体构造线方向垂直的路线，测出岩的地层，记录了观测点的相关信息并绘制了考察路线地质剖面示意图。表1为观测点相关信息表。完成11～12题。

表1

观测点相对关系	观测点序号	坐标
新↓老	C	(31°38'13"N，117°50'13"E)　(31°37'34"N，117°50'59"E)
	D	(31°38'10"N，117°50'19"E)　(31°37'37"N，117°50'52"E)
	S	(31°38'05"N，117°50'32"E)　(31°38'01"N，117°50'43"E)

11. 该考察区域总体构造线走向为

A. 南北方向　　B. 东西方向　　C. 西北—东南方向　　D. 东北—西南方向

12. 该小组绘制的考察路线地质剖面示意图应为

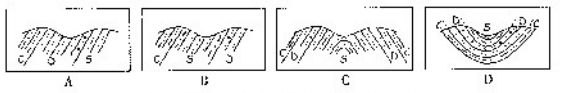

A　　B　　C　　D

13. 《韩非子·解老》云："人无干水盐(煎饺子)，当日民盗。"这句话体现的思想是

A. 未爱先谋　　B. 主权在民　　C. 以民为本　　D. 道法自然

14. 唐末时期，地方节度使权过重，武藩割据现象，政制度崩溃

A. 沿袭宗法体系　　B. 防止地方势力膨胀

C. 健全地方行政机构　　D. 完善地方监察制度

15. "中国历史与西方历史协会结束了中国的闭关自守，使它脱离孤立地位，从世界事务，乃至于到今天，在中国或西方发生的事情都会即时产生相互的影响。"这预测的是

A. 中国近代历史发展中西方的主导性　　B. 近代中国和世界物质交流与融合

C. 中国按照西方模式向近代社会演变　　D. 中国近代史是西学东渐的过程

16. 下列四项为中国近代不同时期的考题，其中19世纪70年代初洋务学堂使用的考题应是

A. "蒸汽有力可用，何向而生？"

B. "论各国银行失信用之根。"

C. "或比较英、美、法、瑞士，中国行政机关应有之产生方法。"

D. "法国大革命对于欧洲民族主义之发展，有何影响？试举例明之。"

17. 图5是英、德、俄、日四国中的某一国在中国出口贸易总额中所占比重(%)变化示意图。这一国家是

A. 英国

B. 德国

C. 俄国

D. 日本

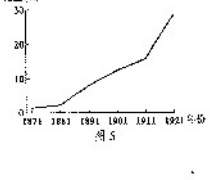

图5

— 19 —

18. 1925年，苏联建立了为中国革命培养干部的莫斯科中山大学。1928年9月，苏联将莫斯科中山大学与莫斯科东方大学中国部合并，改名为"中国劳动者共产主义大学"。苏联更改校名是基于中国

A. 革命由一般转向

B. 北洋军阀统治基本被推翻

C. 国民党右派发动政变

D. 红军最后反"围剿"失利

19. 史学研究受时代产社会环境的制约与影响。表2所列为1949～1978年间国内史学界发表的关于太平天国运动、义和团运动、戊戌变法和辛亥革命的专题研究论文数量，它反映了这一时期学者们研究的不均衡性。表中"丁"指的是

表2

历史专题	论文数量(篇)
甲	722
乙	287
丙	614
丁	96

A. 太平天国运动　　B. 义和团运动

C. 戊戌变法　　D. 辛亥革命

20. "这是一场人类相信自己有能力驾驭自然并通过自己的努力实现自身的伟大运动。"这场运动是

A. 实现人类自我觉醒的文艺复兴　　B. 摆脱天主教会控制的宗教改革

C. 揭开工业运行规律的科学革命　　D. 唤醒人类理性主义的启蒙运动

21. 下列示意图中能正确反映1929～1938年美国和苏联在世界工业总产值中所占份额(%)变化趋势的是

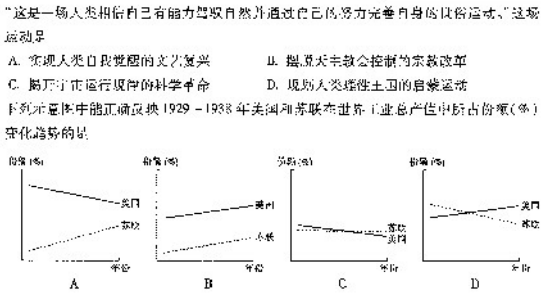

A　　B　　C　　D

22. 1950年1月，英国宣布承认新中国；1954年6月，中英互派代办；1972年3月，中英关系升格为大使级外交关系。在这一过程中，起决定性作用的因素是

A. 中美关系的发展演变

B. 冷战背景下中英两国的现实需要

C. 欧共体对华政策的变化

D. 中英两国意识形态对抗的逐渐消失

23. 文学艺术是时代的产物，同时又能反映时代的风貌。下列各项对应关系正确的是

A. 工业革命后社会的剧烈变革——现代主义绘画兴起

B. 第一次世界大战引发的西方社会悲观危机——印象派绘画产生

C. 19世纪上半期资本主义社会矛盾的激化——现实主义文学兴起

D. 第二次世界大战后西方资本主义的繁荣——浪漫主义文学产生

— 20

24. 近年来，在我与毛埔南、新加坡、俄罗斯等国家的贸易中，使用人民币计价、结算的业务量不断上升，从2010年的0.51万亿元上升到2014年的6.55万亿元。对外贸易中使用人民币计价、结算，有助于

A. 我国外贸企业规避汇率风险　　B. 发挥人民币的"货币"职能

C. 我国外贸企业加快转型升级　　D. 增强人民币国际市场购买力

25. 国务院决定，2015年我国城乡居民基本医疗保险财政补助标准由2014年的每人每年320元提高到380元。下列选项中，对国务院的这一决定理解正确的是

A. 提高医疗补助标准，优化城乡居民的消费结构

B. 健全初次分配机制，调整国家与个人间利益关系

C. 加大再分配力度，提高城乡居民基本医疗保障水平

D. 增加财政投资，提高城乡居民生活质量，缩小贫富差距水平

26. 顺应经济社会发展，我国企业生产经营逐步进入高成本时代，劳动力成本不断上升，地源资源约束加剧，生态环境成本与日俱增，面对这些挑战，企业应当

A. 缩减生产经营规模，减少产品的生产数量

B. 创新经营管理模式，提高生产要素利用率

C. 缩减个别劳动时间，降高单位商品价值量

D. 提高能源消费效率，减少能源资源消耗

27. 2014年6月，国务院批复同意了自治区人民政府提交的昌吉州昌吉市、阜康市、呼图壁县撤县(市)设市(县级)昌吉回族自治州昌吉市。同年12月，按照自治区党委的部署，昌吉州党委、政府正式成立了第一届中共昌吉州委、政府领导机构。从上述材料可以看出

①政府决策要受人民监督

②民族自治机关在国家统一领导下行使职权

③中国共产党是中国特色社会主义事业的领导核心

④民族自治地方人民政府决定本行政区域内各项事务

A. ①②　　B. ①③　　C. ②③　　D. ③④

28. 2014年5月，山东省人大常委会针对大气污染防治问题对省政府进行专题询问，省政府相关部门负责人结合近年来的大气污染防治情况回答一问题作出了答复，询问过程通过网络全程直播，使公民对山东省大气污染防治情况有了更多了解，这体现了

①公民依法参与民主管理　　②人大代表依法行使表决权

③人民代表大会只有对政府的监督权　　④政府坚持对人民负责的原则

A. ①②　　B. ①③　　C. ②④　　D. ③④

29. 我国高位五级卫生组织模式，先后为许多发展中国家模仿医院、培训卫生人才、开展疾病防控，并积极支持联合国在卫生领域的工作。这表明，中国

①积极促进世界共同发展　　②在国际事务中发挥希望作用

③有建设合国在国际社会中的领导地位　　④积极发展与区域性国际组织的关系

A. ①②　　B. ①③　　C. ②④　　D. ③④

— 21 —

30. 图6中的"雷风筝"，是一个具有雷锋形象特征，又有雷锋精神内核的动漫形象，其作者为传播正能量，借鉴经典动漫形象的元素进行的创新设计，赢得了青少年的喜爱。"雷风筝"动漫形象创作的成功，给我们的启示是

①文化创新的主体要有文化自觉和担当

②保留机械创新是繁荣文化的必由之路

③文化创新要广泛地引进和吸收外国文化

④文化创新要满足广大民群众的文化需求

A. ①②　　B. ①④

C. ②③　　D. ③④

图6

31. 随着科学技术的发展，数字出版物日益增加，数字化资源在图书馆馆藏中的比例不断上升。2014年，中国国家图书馆向读者提供了大型数字化产品——《中华经典古籍库》，为读者查阅古籍，了解传统文化提供了方便，由此可见

A. 科学技术发展决定文化的性质　　B. 史书典籍印证了中华文化特有的包容性

C. 传统文化资源的创新转型刻不容缓　　D. 文化传播手段的丰富有助于文化传承

32. 在经济全球化的世界里，我们既面对其带来的挑战与机遇；在文化方面，既面对"文高墙"中，我们领略了其数多红高墙的政治与经济……这多层作家眼见不了的景象。这说明

A. 文化对人的影响深远持久　　B. 信息文学作品在经济发展具有促进作用

C. 不同地域的文化相互融合　　D. 文化魅力最终表现为民族精神的力量

33. 中国是一个有着13亿人口的大家庭，每个人的价值观不尽相同，只有凝聚当代中国的"价值公约数"，才能将13亿不同的"原子"聚集成有序的整体。这段话启示我们，从现事物

A. 既要能富于探索要矛盾，又不能忽视次要矛盾

B. 既要尽认识运动的相对性，又要承认静止的绝对性

C. 既要重视矛盾的特殊性，又要来要把握矛盾的普遍性

D. 既要看到发展的前进性，又要注意克服前进中的曲折性

34. 知乘明冠，其做人最基本的道德规范。"盖不能勿为所不欲，不能则无所不为"，这句古语蕴含的哲理是

A. 联系是普遍的和无条件的　　B. 有什么样的世界观就有什么样的方法论

C. 先知后行能在知　　D. 有什么样的社会存在就有什么样的社会意识

35. 青年处在价值观形成和确立的时期，就好这一时期的价值观非成十分重要。这就像穿衣服扣扣子一样，如果第一粒扣子扣错了，到全部扣子都会扣错。从哲学角看，这反映认青年要扣好人生的"第一粒扣子"，是因为

A. 一切工作都应从正确的价值观出发

B. 价值判断是在价值选择的基础上得出的

C. 价值观对人生实践具有重要的导向作用

D. 社会提供的客观条件是实现人生价值的前提

— 22 —

第Ⅱ卷(必做140分＋选做20分，共160分)

注意事项：

1. 第Ⅱ卷共14道题。其中36～43题为必做部分，44～49题为选做部分。
2. 第Ⅱ卷所有题目的答案，考生须用0.5毫米黑色签字笔答在答题卡规定的区域内，在试卷上答题不得分。
3. 考生在选做部分的试题中须从选题，历史题目中各选择1道试题作答。答题前，请考生务必在答题卡上将所选题号用2B铅笔涂黑。答完题后，再次确认所选题号。

【必做部分】

36.(26分)阅读材料，回答问题。

宁波市是"海上丝绸之路"起始的海岸红杉林生长地，海拔低，海岸长，树形高大，枝干挺直，是世界上最有代表性的红杉林之一。海岸红杉林适合生长在温和、湿润、多雾的环境中。日前，原生海岸红杉林被命名为宁波国家湿地公园。1972年尼克松访华时赠送的海岸红杉种苗栽种在杭州。现在我国已有多个省市引种海岸红杉，有的长成已初具规模。图7为我国原生海岸红杉分布区及周边区域图，图8为杭州和阿克塔的气候变化曲线与海岸红杉生长状况图。

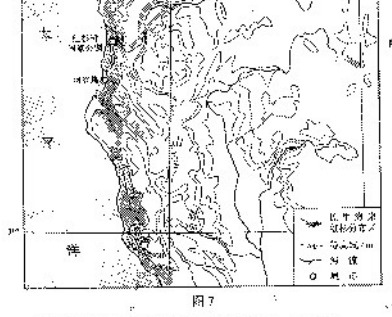

图7

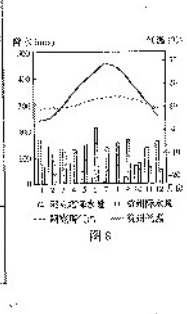

图8

(1)描述原生海岸红杉分布区的地形特征。(4分)

(2)分析原生海岸红杉分布区多雨、多雾的原因。(8分)

(3)对照阿克塔的气候特征，评价杭州海岸红杉生长的气候条件。(6分)

(4)指出海岸红杉引种到我国后的开发利用方向。(8分)

— 23 —

37.(16分)阅读材料，回答问题。

位于环渤海湾地区的天津滨海新区拥有多所著名大学，在市政府通过多种方式支持产学研合作项目，促进了生命科学、生物技术、医药技术和医疗技术等产业的集聚发展，目前，该地区已成为欧洲著名的"药谷"。2000年，天津滨海新区开通了轻轨。图9为天津滨海新区在周边区域图。

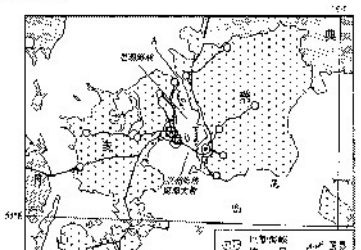

图9

(1)分析天津滨海新区成为"药谷"的有利条件。(8分)

(2)说明修建跨海大桥对天津滨海新区发展的积极作用。(4分)

(3)有人认为，与现在的位置相比，天津滨海新区选择在A处更合理。你是否赞成？简述理由。(4分)

38.(16分)案例学习传统文化的新发展。阅读材料，回答问题。

材料一　城市与生活

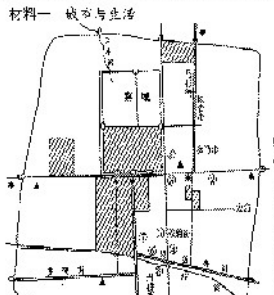

图10　北京东城(局部)古城平面示意图

— 24 —

(1)分析材料一反映的历史现象与宋代理学兴起和发展之间的联系。(10分)

(2)若进一步深入研究宋代理学兴起和发展的原因，你认为还需要补充什么材料？举一例说明。(6分)

39.(14分)1980年6月18日，四川省广汉县向阳人物出了一个《新中国历史上具有重要意义的事件》(选11)，阅读材料，回答问题。

图11

"挖坑了，挖坑都挖成一座的坟墓上去了。"

"在我们小时多时候，我这附生人都不敢见鬼。"

——肯尼史(新闻学博士，时任向阳公社文化站站长)

"挖(轮胎井)是后来才搞的，因为搞轮低洼，当时广汉县要变了三条轮轮：不准宣传，不准广播，不准发展。"

——陈武元(四川省社会科学院研究员，1980年四川省委政策研究室调查研究)

注：以上文字材料摘编自《四川日报》(2000年8月13日)

根据给出材料所提供的历史信息，并结合所学史实以阐释。(14分)

40.(16分)史学研究究竟能向人们对历史事件的认识和评价，阅读材料，回答问题。

材料一　英国将此起战争在十八世纪初为了争夺殖民地的政治利益……在十九世纪初期期间，为了完全控制了印度……在1740年，"殖法英国"一词已经成为人们的口头禅，而到1830年，英国已成为"工业联邦的世界"……

——C.W.克劳利《新编剑桥世界近代史》第九卷

材料二　《世界近代史》和《全球通史：1500年以后的世界》摘目

第一编　资本主义制度的产生	第一编　1500年以前的世界
第一章　英国资产阶级革命	第二编　新兴西方的世界，1500～1763年
第二章　十与十八世纪欧洲大陆主要国家	第三编　西方强国易法统治的世界，1763～1914年
第三章　美国独立战争和法国大革命前各国的主要战争	(一)政治的基础
第四章　法国大革命	第十章　科学革命
第五章　拿破仑第一帝国　维也纳会议	第十一章　工业革命
第二编　近代资本主义时代	第十二章　政治革命
第三编　资本主义阶段的确立	一、政治革命的始局
……	二、美国证命
	三、启蒙运动
	四、美国革命
	五、法国革命
	……

——摘自刘宗绍《世界近代史》(高等教育出版社2013年版)

——摘自斯塔夫里阿诺斯《全球通史：1500年以后的世界》(上海社会科学院出版社1999年版)

25

(1)根据材料一，概括说明英国对于世界历史发展的重要贡献。(6分)

(2)根据材料二，指出两本著作对英国革命在世界历史上的地位有何不同认识。(4分)

(3)依据材料二所反映的斯塔夫里阿诺斯研究历史的视角，说明近代西方是如何取得"优势地位"的。(6分)

41.(18分)发展高技术产业是提高经济发展质量和效益的重要途径。阅读材料，回答问题。

材料一　表2是2010～2013年A、B两省高技术产业发展部分相关数据表。



图12

材料二　表3是2013年A、B两省高技术产业发展部分相关数据表。

表3

省份＼项目	技术市场成交额(亿元)	专利申请授权数(件)	高技术企业数(个)	高技术产业研发人员数(人)	高技术产品出口贸易额(亿美元)
A省	179.40	76978	2015	60097	173.94
B省	537.30	239645	4865	137989	1279.65

(1)材料一反映了哪些经济信息？(5分)

(2)根据材料一和材料二，运用经济生活知识，请你就如何促进A省高技术产业发展提出建议。(12分)

42.(19分)法律是治国之重器，良法是善治之前提，法律的权威在于治之必行。阅读材料，回答问题。

材料一　2014年1月至4月，全国人大常委会将食品安全法(修订草案)等8部法律草案向社会公众公开征求意见。这期间，共有19512人次在网上提出62345条意见，对草案的修改完善发挥了重要作用。全国人大常委会决定，今后，不论是法律草案初审稿还是二审稿，都要向公众广泛征求意见，使公众有更多机会发表看法。

材料二　当前，中国特色社会主义法律体系已经形成，国家生活和社会生活各方面总体上有了法律的规范和引导。但实践发展永无止境，完善中国特色社会主义法律体系也永无止境。同时，我们还要看到，只有把"纸面上的法"变正落实为"行动中的法"，才能切实推进法治国家建设进程。

(1)根据材料一，结合政治生活知识，说明全国人大常委会广泛征求公众意见的合理性。(10分)

(2)运用"探索世界与追求真理"的知识，分析材料二所体现的哲学道理。(9分)

26